ATIVIDADE DE MATEMÁTICA OPERAÇÕES DE ADIÇÃO E SUBTRAÇÃO - PARTE 1

Aluno(a):_____ Data: ____/____/_____

ORIENTAÇÕES

1 – *Primeiramente, assista à videoaula sobre algoritmo da adição e subtração parte 1.*

Link: ***https://bit.ly/OperacaoComAlgoritmoParte1***

2 – Em seguida, leia nesta atividade a explicação que relembra partes importantes da videoaula.

3 – Resolva as operações no algoritmo.

4 – Na dúvida, busque orientação com sua professora.

5 – Ao terminar a atividade, encaminhar para no e-mail de sua professora:

Professora Rosana: rosanamc30@gmail.com

Professora Helô: helomaingue@yahoo.com.br

Professora Ana: anacrislapa3012@hotmail.com

Bom trabalho!

1) Após assistir à videoaula, convide um adulto para ler junto com você o texto a seguir:

Até o terceiro ano, você aprendeu a resolver operações por decomposição e esta maneira de aprender fortalece o raciocínio, preparando para a compreensão de outras maneiras para chegar a um resultado.

Desde o início do quarto ano conversamos sobre diversos caminhos para chegar a um resultado em Matemática. Uns são mais demorados, outros mais rápidos, outros trabalhosos, mas o importante é saber o caminho que está percorrendo e chegar ao resultado correto.

Todo caminho que utilizar para chegar a um resultado tem que seguir etapas, ou seja, seguir regras. E regras lembra jogo! Que tal utilizar o algoritmo como se fosse um jogo? E como todo jogo tem regras a seguir, o algoritmo também terá.

Leia com atenção as seguintes regras:

1ª Ao armar as operações, coloque os algarismos respeitando cada ordem (unidade embaixo de unidade, dezena embaixo de dezena e centena embaixo de dezena).

2ª Inicie a operação **sempre** pela ordem das **unidades,** em seguida, as dezenas e por último as centenas (por enquanto).

3ª Na subtração você deverá colocar sempre a maior quantidade no primeiro plano do algoritmo e a quantidade a ser retirada no segundo plano, para então poder fazer os cálculos.

4ª Conferir o resultado de cada ordem e arrumar se necessário.

Tem mais regras!

Mas, trabalharemos com elas na próxima aula.

2) Observe a seguir as imagens do Material Dourado, coloque com algarismos os resultados de cada ordem e depois resolva ao lado pelo algoritmo, conferindo os resultados.

ADIÇÃO:

CENTENAS	DEZENAS	UNIDADES
		
		

	C	D	U
	2	1	3
+		5	5

SUBTRAÇÃO:

	C	D	U
	1	**8**	**3**
-		**6**	**2**

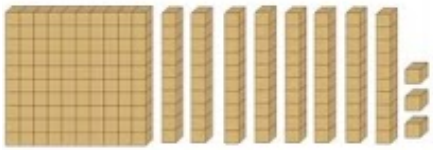

Observe a quantidade que tem que ser retirada de cada ordem:
Tirar 2 unidades de 3 e 6 dezenas de 8.

3) Agora é importante treinar! Siga as regras para resolver cada operação. Vamos lá?

a) **425 + 232 = _____** C D U 4 2 5 + 2 3 2 _____	b) **843 + 125 =_____** C D U _____ + _____ _____	c) **694 + 204=_____** C D U _____ + _____ _____
d) **787 – 545 =_____** C D U _____ - _____ _____	e) **596 – 302 =_____** C D U _____ - _____ _____	f) **879 – 73 =_____** C D U _____ - _____ _____